地理

都道府県の調査　2－3

第二編　いろいろな地域の調査

月　　日

【1】次の地図を見て，各問いに答えなさい。

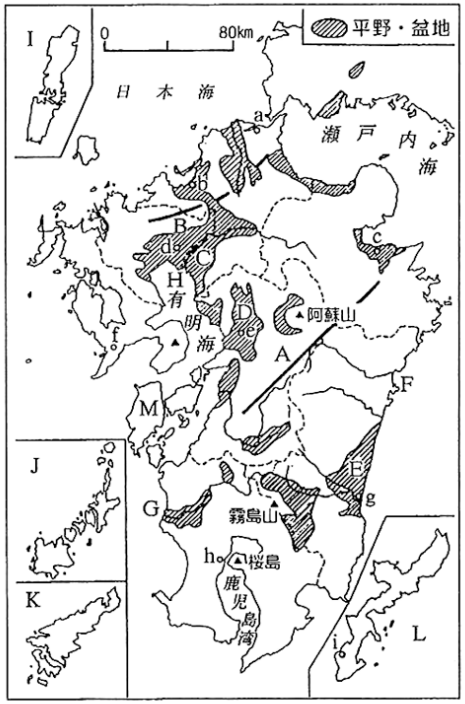

（1）地図中のａ～ｉの都市名を答えなさい。

ａ（　　市）

ｂ（　　市）

ｃ（　　市）

ｄ（　　市）

ｅ（　　市）

ｆ（　　市）

ｇ（　　市）

ｈ（　　市）

ｉ（　　市）

（2）地図中のＡ～Ｍの山地・平野・川・島の名称を答えなさい。

Ａ（　　山地）

Ｂ（　　山地）

Ｃ（　　平野）

Ｄ（　　平野）

Ｅ（　　平野）

Ｆ（　　川）

Ｇ（　　川）

Ｈ（　　川）

Ｉ（　　）

Ｊ（　　列島）

Ｋ（　　大島）

Ｌ（　　島）

Ｍ（　　諸島）

【2】次のⅠ図・Ⅱ図について，各問いに答えなさい。

〔Ⅰ図〕

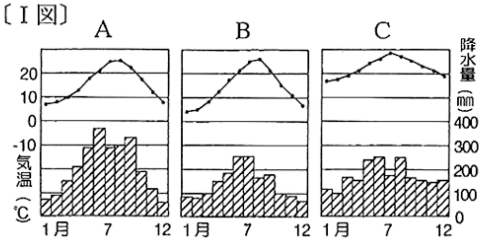

〔Ⅱ図〕

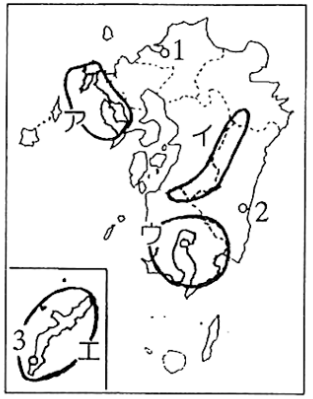

（1）Ⅰ図の雨温図は，Ⅱ図の地図中の１～３のどの都市の気候を示したものですか。それぞれ番号と都市名を答えなさい。

Ａ＝番号（　　）・都市名（　　市）

Ｂ＝番号（　　）・都市名（　　市）

Ｃ＝番号（　　）・都市名（　　市）

（2）次のａ～ｄの各文が説明しているのはⅡ図中のア～エのどの地域のことですか。記号で答えなさい。

ａ＝海岸線の出入りが多く，五島列島など多くの島々がある。

（　　）

ｂ＝高くて険しい山地で九州を南北に分けている。

（　　）

ｃ＝ほとんどが亜熱帯性の気候で，海岸には，珊瑚礁が数多く見られる。

（　　）

ｄ＝火山灰でおおわれた台地が広がっている。

（　　）

※こちらはサンプルです。実際は、B4サイズになります。